Erstellt mit dem Worksheet Crafter – www.worksheetcrafter.com

Wie groß ist die Fläche dieser Form?
Schreibe die Angabe in dein Heft,
rechne und schreibe eine Antwort.

LÄNGE: 45CM
BREITE: 8CM

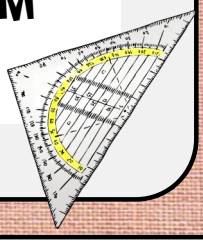

www.lernfrosch.at

Flächen berechnen

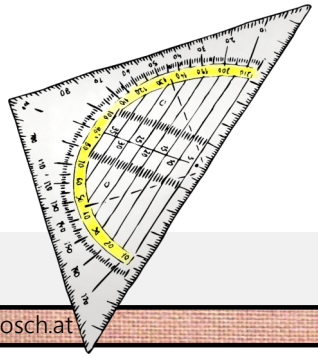

www.lernfrosch.at

Wie groß ist die Fläche dieser Form?
Schreibe die Angabe in dein Heft,
rechne und schreibe eine Antwort.

LÄNGE: 37CM
BREITE: 5CM

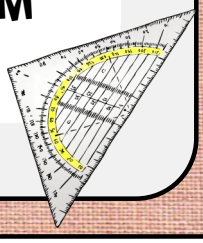

www.lernfrosch.at

Wie groß ist die Fläche dieser Form?
Schreibe die Angabe in dein Heft,
rechne und schreibe eine Antwort.

LÄNGE: 9CM
BREITE: 44CM

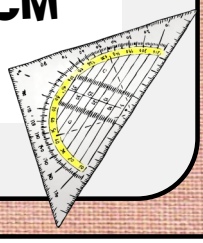

www.lernfrosch.at

Wie groß ist die Fläche dieser Form?
Schreibe die Angabe in dein Heft,
rechne und schreibe eine Antwort.

LÄNGE: 88CM
BREITE: 2CM

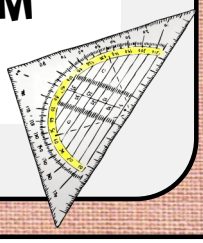

www.lernfrosch.at

Wie groß ist die Fläche dieser Form?
Schreibe die Angabe in dein Heft,
rechne und schreibe eine Antwort.

LÄNGE: 71CM
BREITE: 10CM

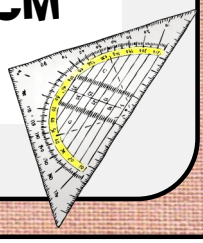

www.lernfrosch.at

Wie groß ist die Fläche dieser Form?
Schreibe die Angabe in dein Heft,
rechne und schreibe eine Antwort.

LÄNGE: 28CM
BREITE: 7CM

www.lernfrosch.at

Wie groß ist die Fläche dieser Form?
Schreibe die Angabe in dein Heft,
rechne und schreibe eine Antwort.

LÄNGE: 4CM
BREITE: 46CM

Wie groß ist die Fläche dieser Form?
Schreibe die Angabe in dein Heft,
rechne und schreibe eine Antwort.

LÄNGE: 36CM
BREITE: 20CM

Wie groß ist die Fläche dieser Form?
Schreibe die Angabe in dein Heft,
rechne und schreibe eine Antwort.

LÄNGE: 18CM
BREITE: 9CM

Wie groß ist die Fläche dieser Form?
Schreibe die Angabe in dein Heft,
rechne und schreibe eine Antwort.

LÄNGE: 72CM
BREITE: 7CM

Wie groß ist die Fläche dieser Form?
Schreibe die Angabe in dein Heft,
rechne und schreibe eine Antwort.

LÄNGE: 18CM
BREITE: 4CM

Wie groß ist die Fläche dieser Form?
Schreibe die Angabe in dein Heft,
rechne und schreibe eine Antwort.

LÄNGE: 18CM
BREITE: 3CM

Wie groß ist die Fläche dieser Form?
Schreibe die Angabe in dein Heft,
rechne und schreibe eine Antwort.

LÄNGE: 7CM
BREITE: 41CM

Wie groß ist die Fläche dieser Form?
Schreibe die Angabe in dein Heft,
rechne und schreibe eine Antwort.

LÄNGE: 63CM
BREITE: 7CM

Wie groß ist die Fläche dieser Form?
Schreibe die Angabe in dein Heft,
rechne und schreibe eine Antwort.

LÄNGE: 27CM
BREITE: 4CM

Wie groß ist die Fläche dieser Form?
Schreibe die Angabe in dein Heft,
rechne und schreibe eine Antwort.

LÄNGE: 72CM
BREITE: 3CM

Wie groß ist die Fläche dieser Form?
Schreibe die Angabe in dein Heft,
rechne und schreibe eine Antwort.

LÄNGE: 18CM
BREITE: 5CM